Division Visuelle

Nom:

Utilisez les formes pour répondre aux questions.

Ex) Combien de groupes de 6 pouvez-vous faire avec les 18 formes ci-dessous?

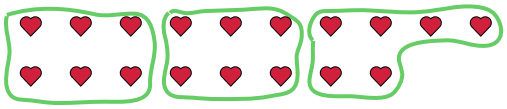

1) Combien de groupes de 8 pouvez-vous faire avec les 16 formes ci-dessous?

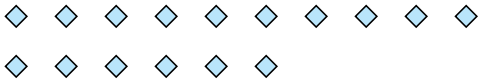

2) Combien de groupes de 6 pouvez-vous faire avec les 36 formes ci-dessous?



3) Combien de groupes de 5 pouvez-vous faire avec les 25 formes ci-dessous?

4) Combien de groupes de 5 pouvez-vous faire avec les 15 formes ci-dessous?

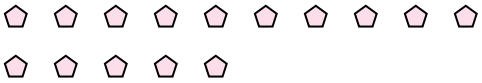

5) Combien de groupes de 3 pouvez-vous faire avec les 6 formes ci-dessous?

6) Combien de groupes de 4 pouvez-vous faire avec les 40 formes ci-dessous?

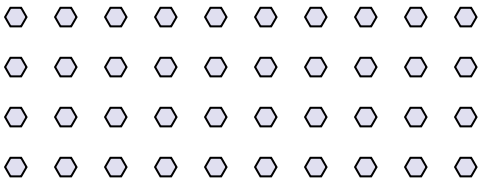

7) Combien de groupes de 2 pouvez-vous faire avec les 16 formes ci-dessous?

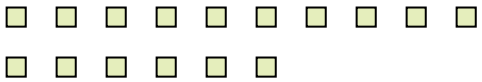

8) Combien de groupes de 6 pouvez-vous faire avec les 30 formes ci-dessous?



9) Combien de groupes de 7 pouvez-vous faire avec les 21 formes ci-dessous?



10) Combien de groupes de 8 pouvez-vous faire avec les 24 formes ci-dessous?

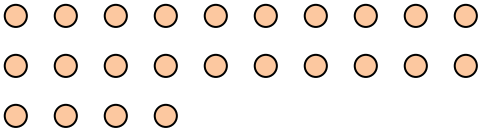

11) Combien de groupes de 2 pouvez-vous faire avec les 22 formes ci-dessous?



Réponses

Ex. 3

1. _____
2. _____
3. _____
4. _____
5. _____
6. _____
7. _____
8. _____
9. _____
10. _____
11. _____

1-10	91	82	73	64	55	45	36	27	18	9
11	0									

Division Visuelle

Nom: **Clé**

Utilisez les formes pour répondre aux questions.

Ex) Combien de groupes de 6 pouvez-vous faire avec les 18 formes ci-dessous?

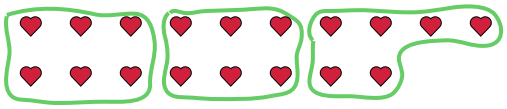

1) Combien de groupes de 8 pouvez-vous faire avec les 16 formes ci-dessous?

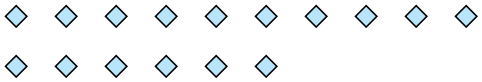

2) Combien de groupes de 6 pouvez-vous faire avec les 36 formes ci-dessous?



3) Combien de groupes de 5 pouvez-vous faire avec les 25 formes ci-dessous?

4) Combien de groupes de 5 pouvez-vous faire avec les 15 formes ci-dessous?

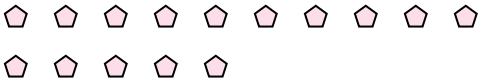

5) Combien de groupes de 3 pouvez-vous faire avec les 6 formes ci-dessous?

6) Combien de groupes de 4 pouvez-vous faire avec les 40 formes ci-dessous?

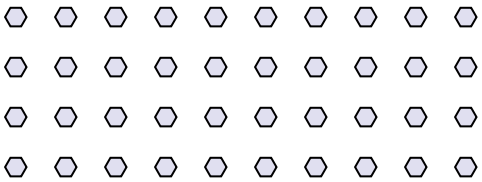

7) Combien de groupes de 2 pouvez-vous faire avec les 16 formes ci-dessous?

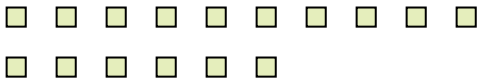

8) Combien de groupes de 6 pouvez-vous faire avec les 30 formes ci-dessous?



9) Combien de groupes de 7 pouvez-vous faire avec les 21 formes ci-dessous?



10) Combien de groupes de 8 pouvez-vous faire avec les 24 formes ci-dessous?

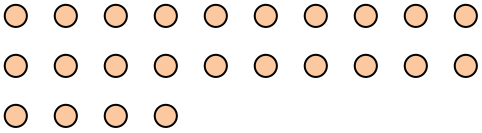

11) Combien de groupes de 2 pouvez-vous faire avec les 22 formes ci-dessous?



Réponses

Ex.	3
1.	2
2.	6
3.	5
4.	3
5.	2
6.	10
7.	8
8.	5
9.	3
10.	3
11.	11

1-10	91	82	73	64	55	45	36	27	18	9
11	0									