Division Visuelle

Nom:

Utilisez les formes pour répondre aux questions.

Ex) Combien de groupes de 6 pouvez-vous faire avec les 18 formes ci-dessous?

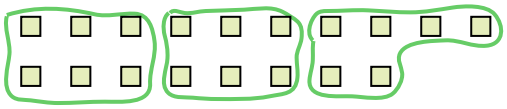

1) Combien de groupes de 3 pouvez-vous faire avec les 36 formes ci-dessous?

2) Combien de groupes de 9 pouvez-vous faire avec les 18 formes ci-dessous?



3) Combien de groupes de 6 pouvez-vous faire avec les 36 formes ci-dessous?

4) Combien de groupes de 4 pouvez-vous faire avec les 8 formes ci-dessous?

5) Combien de groupes de 9 pouvez-vous faire avec les 18 formes ci-dessous?



6) Combien de groupes de 9 pouvez-vous faire avec les 18 formes ci-dessous?

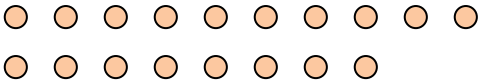

7) Combien de groupes de 5 pouvez-vous faire avec les 40 formes ci-dessous?

8) Combien de groupes de 3 pouvez-vous faire avec les 33 formes ci-dessous?

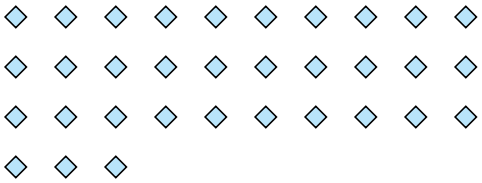

9) Combien de groupes de 6 pouvez-vous faire avec les 36 formes ci-dessous?



10) Combien de groupes de 8 pouvez-vous faire avec les 16 formes ci-dessous?

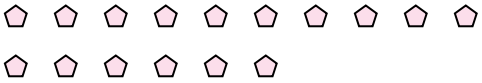

11) Combien de groupes de 4 pouvez-vous faire avec les 12 formes ci-dessous?



Réponses

Ex. 3

1. _____
2. _____
3. _____
4. _____
5. _____
6. _____
7. _____
8. _____
9. _____
10. _____
11. _____

Division Visuelle

Nom: **Clé**

Utilisez les formes pour répondre aux questions.

Ex) Combien de groupes de 6 pouvez-vous faire avec les 18 formes ci-dessous?

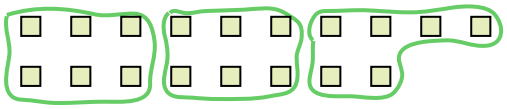

1) Combien de groupes de 3 pouvez-vous faire avec les 36 formes ci-dessous?

2) Combien de groupes de 9 pouvez-vous faire avec les 18 formes ci-dessous?



3) Combien de groupes de 6 pouvez-vous faire avec les 36 formes ci-dessous?

4) Combien de groupes de 4 pouvez-vous faire avec les 8 formes ci-dessous?

5) Combien de groupes de 9 pouvez-vous faire avec les 18 formes ci-dessous?



6) Combien de groupes de 9 pouvez-vous faire avec les 18 formes ci-dessous?

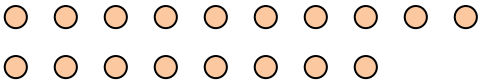

7) Combien de groupes de 5 pouvez-vous faire avec les 40 formes ci-dessous?

8) Combien de groupes de 3 pouvez-vous faire avec les 33 formes ci-dessous?

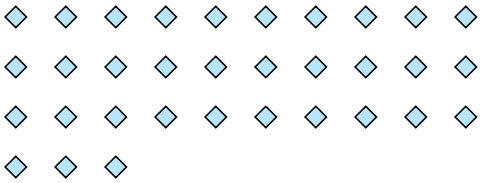

9) Combien de groupes de 6 pouvez-vous faire avec les 36 formes ci-dessous?



10) Combien de groupes de 8 pouvez-vous faire avec les 16 formes ci-dessous?

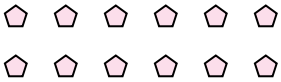

11) Combien de groupes de 4 pouvez-vous faire avec les 12 formes ci-dessous?



Réponses

Ex.	3
1.	12
2.	2
3.	6
4.	2
5.	2
6.	2
7.	8
8.	11
9.	6
10.	2
11.	3